Groupe Scolaire ESSALAM
d'enseignement privé
OUJDA

مجموعة السلام الدراسية
للتعليم الخصوصي
وجدة

DEFI MATHEMATIQUES ANNEE 2023-2024 « SEMAINE N° 22»

Exercices d'Entrainement – Niveau : 3AC

1er Défi — التحدي الأول

Le grand carré a une aire de 16 cm². Chacun des quatre petits carrés a une aire de 1 cm².

Quelle est l'aire de la partie grisée ?

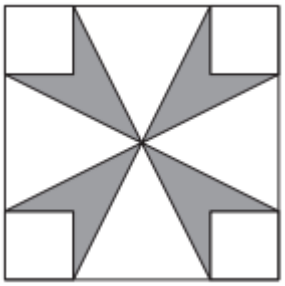

2ème Défi — التحدي الثاني

Un cube 3 × 3 × 3 est formé de petits cubes 1 × 1 × 1 blancs, gris ou noirs, comme montré sur la première figure.

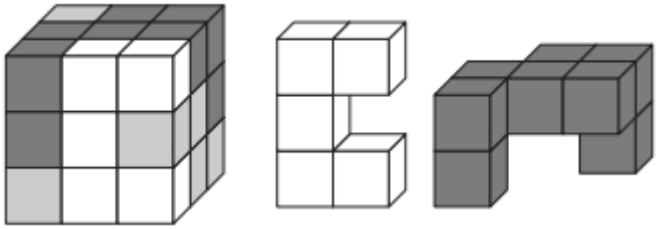

Les deux autres figures montrent la partie blanche et la partie noire du cube.

Laquelle des figures suivantes montre la partie grise du cube ?

A) 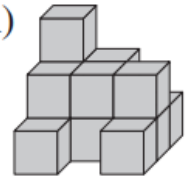
B) 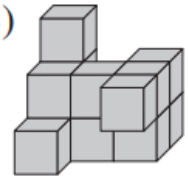
C) 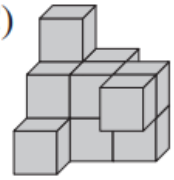
D) 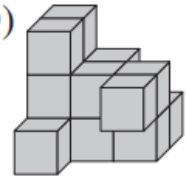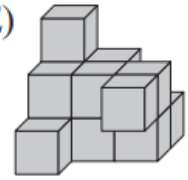
E)