Groupe Scolaire ESSALAM
d'enseignement privé
OUJDA

مجموعة السلام الدراسية
للتعليم الخصوصي
وجدة

DEFI MATHEMATIQUES ANNEE 2023-2024 « SEMAINE N° 20»

Exercices d'Entrainement – Niveau : 1AC

1er Défi — التحدي الأول

Voici cinq chemins, en traits épais, allant du point X au point central. Lequel est le plus court?

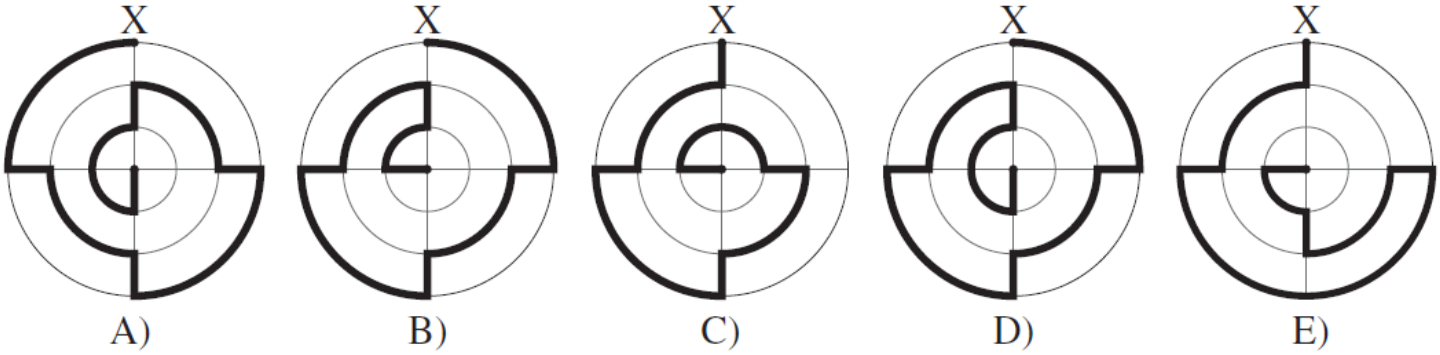

2ème Défi — التحدي الثاني

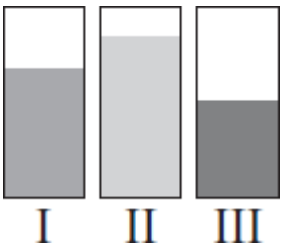

Moad a versé le même volume de liquide dans trois récipients parallélépipédiques. Mais, vus de face (dessin ci-contre), le niveau du liquide est différent dans les trois.

Un des dessins ci-dessous représente les trois récipients vus de dessus.

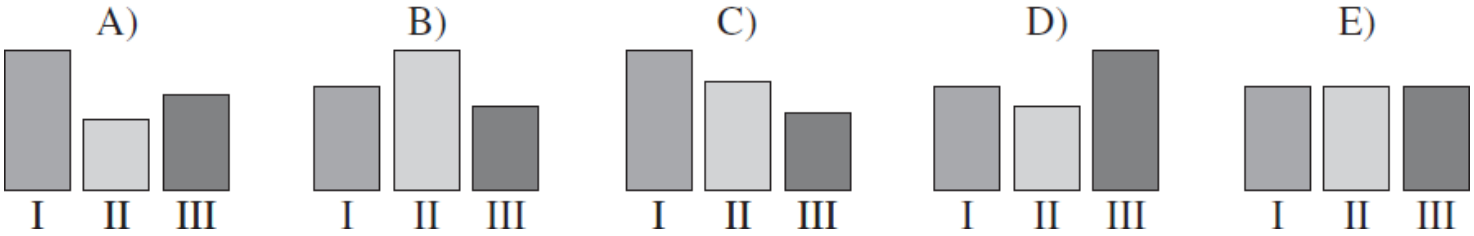

Lequel ?